Prof. Micu Elena
Micu Elena

Nume și prenume elev: _____ Clasa: _____ Data: _____

Fișa nr. 13. Geometrie plană

Clasa a VI-a

Unghiuri complementare și suplementare

Aflați valoarea necunoscutei. Scrieți toate etapele rezolvării.

1. Aflați valoarea lui t.

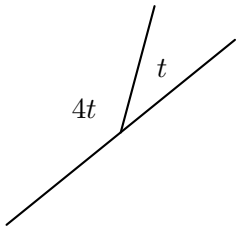

2. Aflați valoarea lui x.

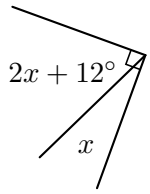

3. Aflați valoarea lui x.

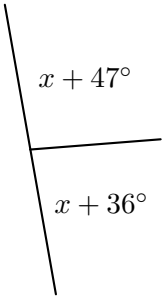

4. Aflați valoarea lui x.

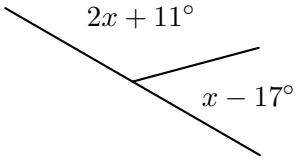

5. Aflați valoarea lui x.

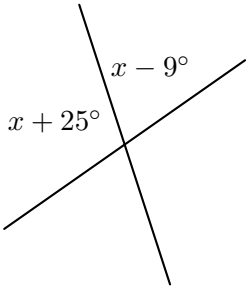

6. Aflați y, apoi x.

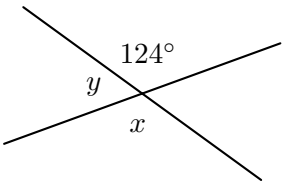

7. Ce observați despre valoarea lui x de la itemul 6? Justificați.

_____

_____

_____

Completați cerculețele corespunzătoare tuturor răspunsurilor corecte de mai sus. Nu completați răspunsurile greșite.

◯64° ◯144° ◯36° ◯73° ◯56° ◯26° ◯124° ◯41,5° ◯62° ◯48,5° ◯45°
◯30° ◯82°