Prof. Micu Elena
Micu Elena

Nume și prenume elev: _____ Clasa: _____ Data: _____

Fișa nr. 3. Geometrie plană

Clasa a V-a

Notarea unghiurilor

Scrieți o notație pentru unghiul indicat la fiecare item (unghiul notat cu un număr sau unghiul marcat cu arc), folosind notația cu trei litere.

Model

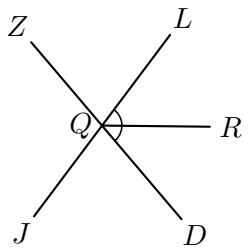

Unghiul marcat cu arc are vârful în Q și laturile $[QD$ și $[QL$. O notație a lui este

$$\sphericalangle DQL \quad \text{sau} \quad \sphericalangle LQD.$$

Nu îl putem nota $\sphericalangle Q$, deoarece în punctul Q au vârful mai multe unghiuri.

1. $\sphericalangle 1$

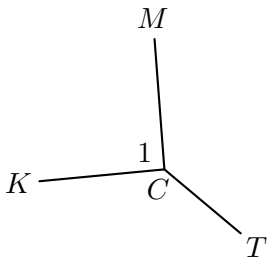

Notație: _____

2. $\sphericalangle 2$

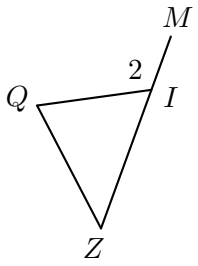

Notație: _____

3. Unghiul marcat cu arc.

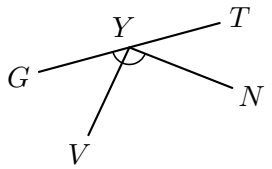

Notație: _____

4. Unghiul marcat cu arc.

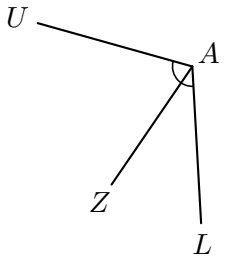

Notație: _____

5. $\sphericalangle 5$

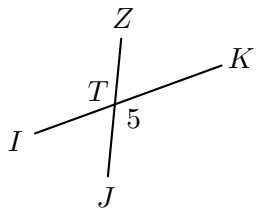

Notație: _____

6. Unghiul marcat cu arc.

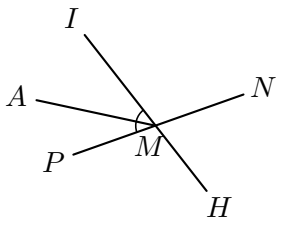

Notație: _____

7. Unghiul marcat cu arc.

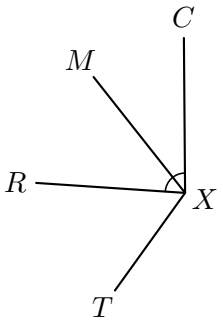

Notație: _____

8. Unghiul marcat cu arc.

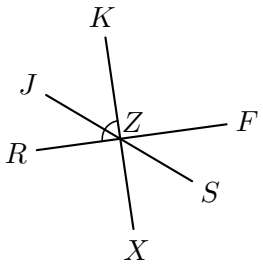

Notație: _____

9. Unghiul marcat cu arc.

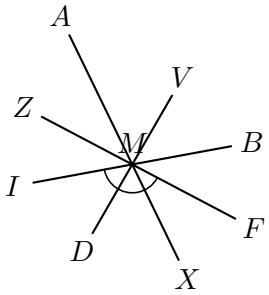

Notație: _____

10. $\sphericalangle 10$

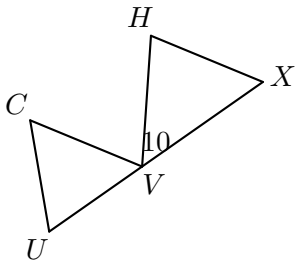

Notație: _____