Prof. Micu Elena

Micu Elena

Nume și prenume elev: _____ Clasa: _____ Data: _____

Fișa nr. 4. Geometrie plană

Clasa a V-a

Interiorul și exteriorul unui unghi

Pentru fiecare item, stabiliți poziția punctului indicat față de unghiul $\sphericalangle AOB$ și completați cerculetul corespunzător în tabelul de la sfârșitul fișei, după cum punctul se află: **A** – în interiorul unghiului, **B** – pe laturile unghiului sau **C** – în exteriorul unghiului.

Atenție! Laturile unghiului sunt semidrepte: ele continuă dincolo de punctele A și B, dar nu și dincolo de vârful O.

1. Punctul P față de $\sphericalangle AOB$.

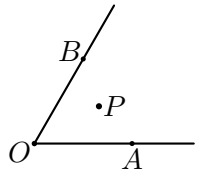

2. Punctul Q față de $\sphericalangle AOB$.

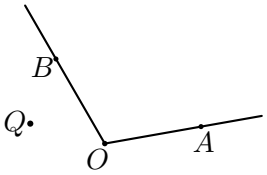

3. Punctul R față de $\sphericalangle AOB$.

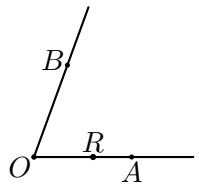

4. Punctul S față de $\sphericalangle AOB$.

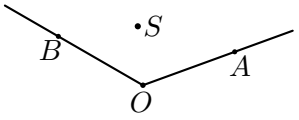

5. Punctul T față de $\sphericalangle AOB$.

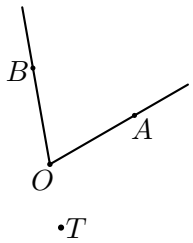

6. Punctul O față de $\sphericalangle AOB$.

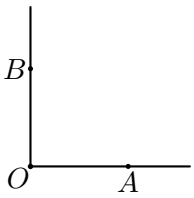

7. Punctul V față de $\sphericalangle AOB$.

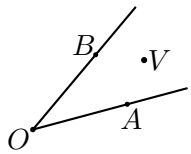

8. Punctul W față de $\sphericalangle AOB$.

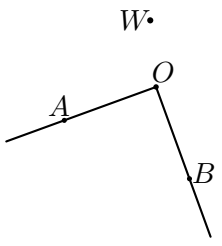

9. Punctul X față de $\sphericalangle AOB$.

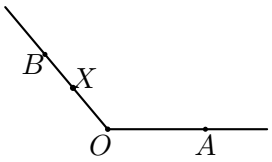

10. Punctul Y față de $\sphericalangle AOB$.

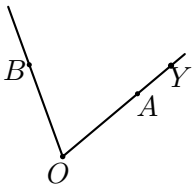

Completați cerculețul corespunzător răspunsului corect pentru fiecare item de mai sus.

1.	**2.**	**3.**	**4.**	**5.**	**6.**	**7.**	**8.**	**9.**	**10.**
◯ A	◯ A	◯ A	◯ A	◯ A	◯ A	◯ A	◯ A	◯ A	◯ A
◯ B	◯ B	◯ B	◯ B	◯ B	◯ B	◯ B	◯ B	◯ B	◯ B
◯ C	◯ C	◯ C	◯ C	◯ C	◯ C	◯ C	◯ C	◯ C	◯ C